新北市立鷺江國民中學　110 學年度　第 2 學期　7 年級 社會科　第 1 次段考　題目卷

命題教師:社會領域教師群 日期：3 月 24 日　第 7 節　班級：　座號：　姓名：

共 50 題，每題 2 分。

【地理部分第 01~17 題】

1.影響人口成長的因素相當多樣，下列選項所敘述的情形，何者<u>不會</u>使得台灣總人口數有所變化？
(A)王阿姨生了小寶寶 (B)老張娶回越南媳婦 (C)阿美搬到高雄定居 (D)老許移民到美國。

2.2020~2021 年台灣因受到出生率持續下降及新型冠狀病毒疫情影響，三項人口相關指標均為負數(如圖 1)。根據圖 1 判斷下列敘述何者<u>正確</u>？
(A)2021 年的社會增加率>自然增加率
(B)2021 年的移入率>移出率
(C)台灣人口增加率主要是隨自然增加率變化
(D)2020 年和 2021 年台灣人口緩慢增加中。

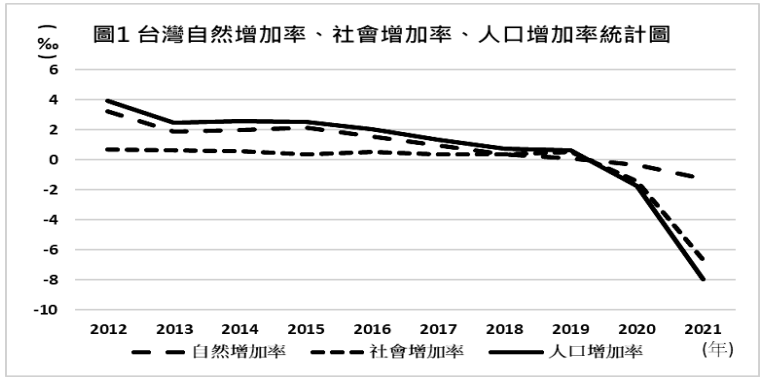

3.右表是<u>江小鷺</u>蒐集部分國家 2010 年的人口資料。請根據表中的數據，判斷下列推論何者<u>錯誤</u>？(改寫自 103 會考)
(A)甲國人口總數較其他三國多
(B)乙國移入率大於移出率
(C)丙國自然增加率較其他三國高
(D)丁國人口總數較其他三國少。

項目＼國家	甲	乙	丙	丁
出生率(‰)	12.2	13.8	17.3	29.4
死亡率(‰)	6.9	8.4	6.0	4.9
人口成長(增加)率(‰)	5	8	11	24
增加人口數(千人)	6,650	2,474	985	712

4.<u>江小鷺</u>看 FB 時看到一張教育部 2022 年政策新制度的相關說明(如圖 2)，請問此政策主要是針對下列哪項台灣人口的變化趨勢而推出來的？
(A)自然增加率下降　(B)社會增加率下降
(C)性別比逐漸降低　(D)區域發展不均衡。



圖 2

5.承第 4 題，如果想要更進一步了解教育部提出這一政策後的成效如何，哪一張圖<u>較不能</u>用來輔助說明？

(A)
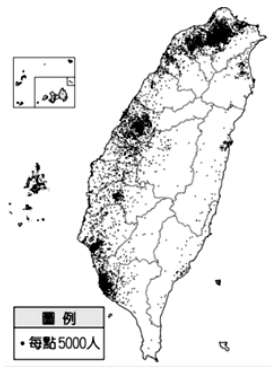

(B)
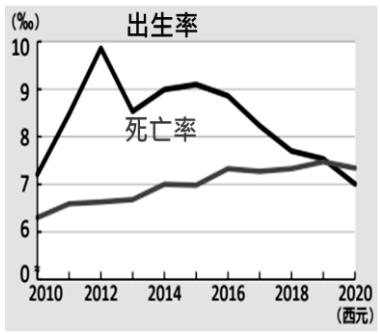

(C)
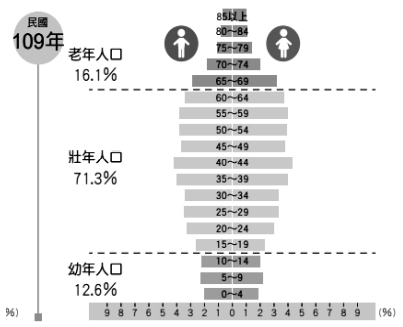

(D)
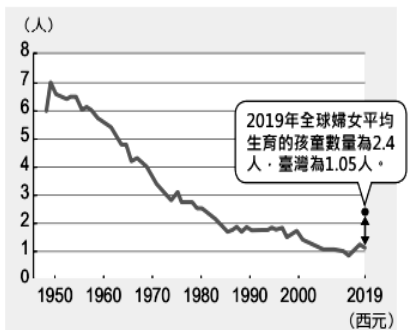

6.圖 3 是 2021 年臺灣各縣市的人口總數資料，為什麼各縣市人口總數的差異這麼大，下列何者<u>並非</u>主要的影響因素？
(A)緯度氣候 (B)地形起伏 (C)產業活動 (D)開發早晚。

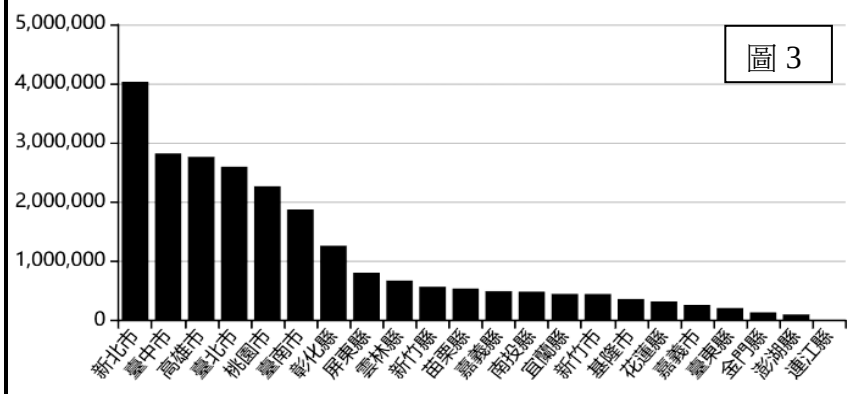

圖 3

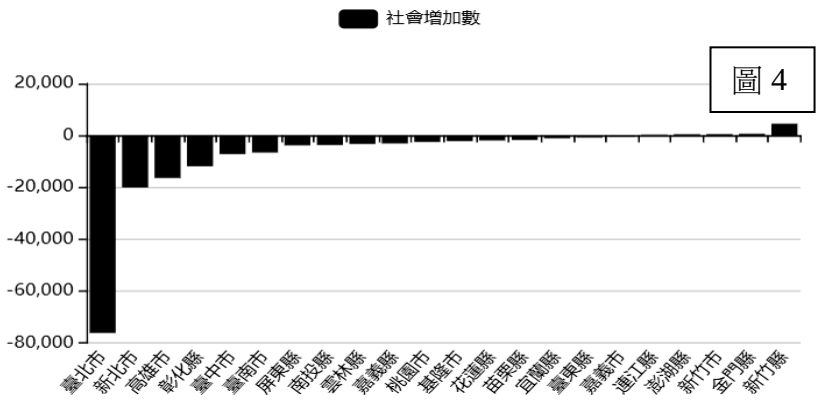

圖 4

7.圖 4 是 2021 年台灣各縣市社會增加人數的統計，從資料中可發現以台北市的人口遷移最為顯著，請問影響台北市呈現此一遷徙情形的主要原因最有可能為何？(A)拉力>推力，因就業機會多 (B)拉力>推力，因社會福利完善 (C)推力>拉力，因工業污染嚴重 (D)推力>拉力，因房價負擔沉重。

8.國家語言發展法通過 111 學年起中小學生必修本土語言，包括閩南語、客語、原住民語、馬祖的閩東語和台灣手語。將必修本土語言和台灣主要族群組成比對下可發現新住民的語言並未納入課程當中。如果未來政府也想將新住民語言納入，那將會以教授那些國家語言為優先考量呢？(A)俄羅斯文、德文 (B)越南文、印尼文 (C)阿拉伯文、土耳其文 (D)西班牙文、葡萄牙文。

9.承第 8 題，這些來臺灣的新住民就人口遷移的分類來說屬於哪一種人口遷移呢？(A)國內、暫時性遷移 (B)國內、永久性遷移 (C)國際、暫時性遷移 (D)國際、永久性遷移。

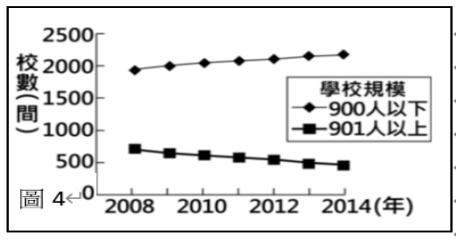

圖 4

10.圖 4 為 2008 至 2014 年臺灣不同規模的國小校數變化，面臨此種變化趨勢政府應提出何者政策來因應較為恰當？(改寫自 110、107 會考) (A)提供幼兒生活補助津貼 (B)修改法規延後退休年齡 (C)推動長期老人安養服務 (D)夫妻協商決定子女姓氏。

11.圖 5 為某國扶養比的歷年變化，若按人口組成來推測其歷年人口金字塔應會如何變化(如圖 6)？(改寫自 104、106 會考) (A)甲→乙→丙 (B)甲→丙→乙 (C)乙→甲→丙 (D)丙→乙→甲。


圖 5

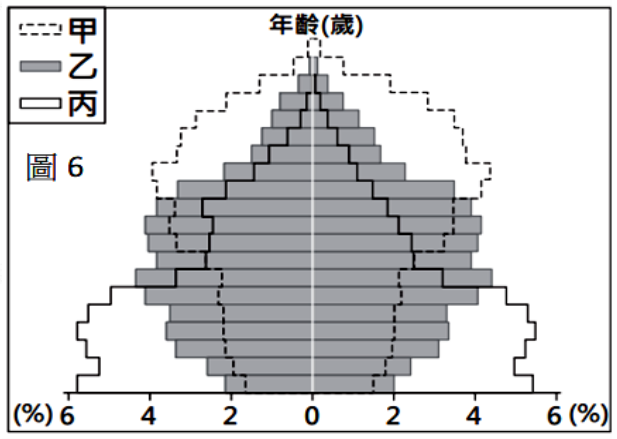

圖 6

12.江小鷺想利用春節連假來趟火車之旅，請問當他搭到哪一個車站時最有可能聽到阿美族語的到站廣播？(A)台北車站 (B)花蓮車站 (C)高雄車站 (D)台中車站。

【題組】

江小鷺是今年(2022 年)滿 13 歲就讀鷺江國中七年級的男學生，平時對地理極感興趣，在老師介紹台灣人口的相關知識後，上網查詢了蘆洲的人口統計數據。請根據他搜尋到的資料回答相關問題。

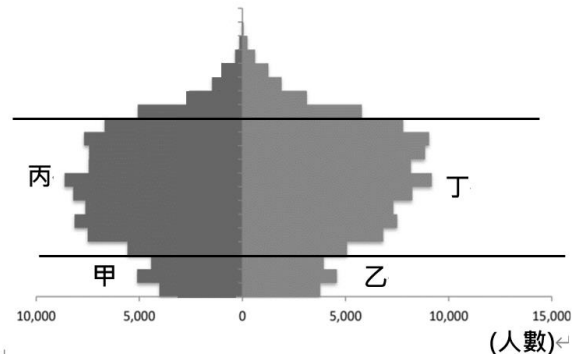

13.根據資料一蘆洲區 2020 年的人口金字塔圖所示，江小鷺應該歸類於資料一的哪一區？(A)甲 (B)乙 (C)丙 (D)丁。

14.根據資料二江小鷺做出蘆洲區的人口變化推測中，哪一個**有誤**？

(A)人口增加率變化和社會增加率的波動較有關 (B)110 年的人口數會較 109 年少

(C)100~110 年出生率都大於死亡率 (D)100~110 年移入率都大於移出率。

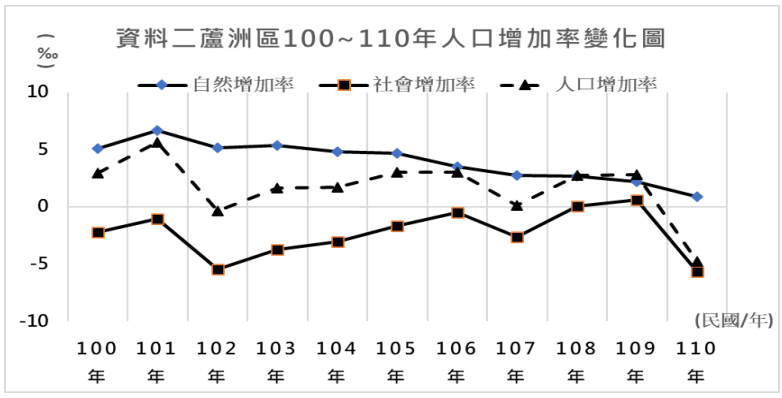

資料三　台灣各鄉鎮市區人口密度排名表

排序	區	人口密度	人口數
1	新北市永和區	37,622	21.4萬人
2	新北市蘆洲區	27,099	20.1萬人
3	台北市大安區	25,649	29.1萬人

（2021 年 12 月）

15.根據資料三可看出蘆洲區是僅次於永和區，全國所有鄉鎮市區中人口密度第二高的地區。江小鷺針對資料三做出以下四個推測中，哪一個**有誤**？(A)人口密度的單位為人/平方公里 (B)蘆洲區的人口分布較永和區均勻 (C)蘆洲區的面 積比大安區小，所以人口密度較大 (D)蘆洲區的活動空間會較大安區擁擠。

16.根據資料四江小鷺做出蘆洲區總人口性別比的推測中，哪一個**正確**？(A)男生比女生多 (B)女生比男生多 (C)男女人數一樣 (D)無法推估。

17.根據資料五江小鷺做出蘆洲區人口組成的四個推測中，哪一個**錯誤**？(A)幼年人數逐年減少 (B)人力資源人數漸減 (C)扶養負擔逐年降低 (D)蘆洲已進入高齡化。

資料四

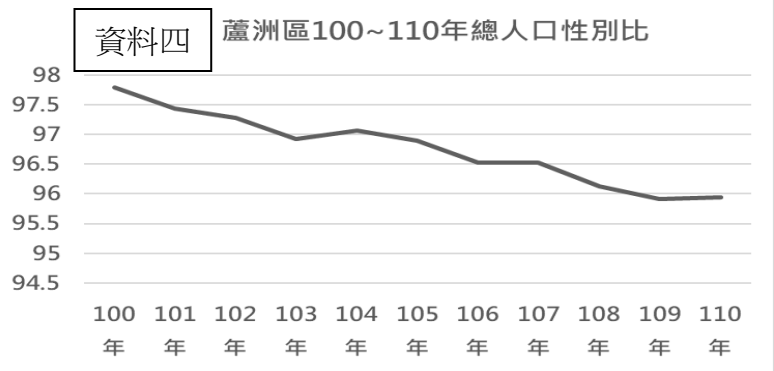

資料五

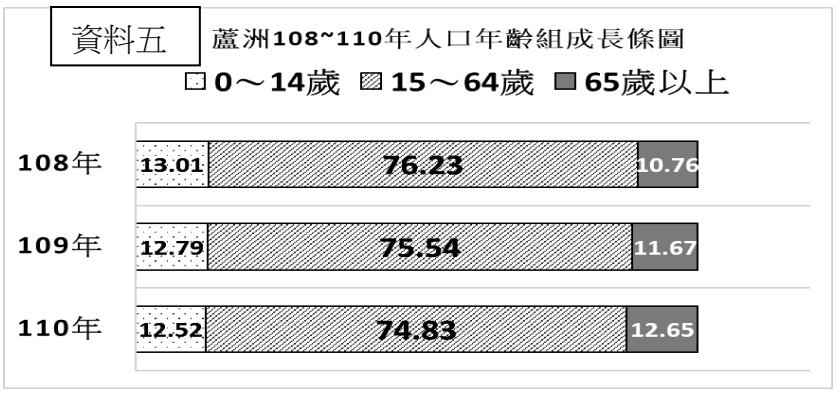

【歷史部分第 18~34 題】

18.小吳穿越時空意外來到 1930 年的蘆洲，下列哪一狀況他<u>不可能</u>會遇到？ (A)民眾不去湧蓮寺而是前往神社參拜 (B)在報紙上看到嘉南大圳完工 (C)聽說南投的山上爆發原住民抗日 (D)當時臺灣總督是文官出身。

19.小明在歷史書上讀到「惟是臺灣疆土，<u>荷鄭大清經營締造二百餘年，今須自立為國</u>，感念列聖舊恩，仍應恭奉正朔（意指恭奉清朝為正統）……特此曉諭全臺知之。」請問關於這段獨立宣言內容何者正確？ (A)余清芳抗日宣言 (B)日本治臺第一任總督就職宣言 (C)臺灣民主國抗日宣言 (D)莫那魯道抗日宣言。

20.百歲人瑞老陳是日治時期的蔗農，請問當他回想當年種甘蔗的日子時，下列哪個回憶是對的？ (A)臺灣企業家出資建立新式糖廠 (B)製糖會社必須與蔗農討論收購價格 (C)臺灣最大水利工程八堡圳提高了甘蔗產量 (D)會社秤量甘蔗時常常偷斤減兩。

21.臺灣原住民族曾經於 1988 年、1989 年、1993 年走上街頭展開「還我土地運動」，表達他們對自身尊嚴的維護、固有權益的爭取。請問日治時期哪項政策造成原住民族傳統領域流失？ (A)人口普查 (B)土地調查 (C)林野調查 (D)工業日本，農業臺灣。

22.小華在「日治時期文物展」看到以下文物，請協助他按照時間先後順序排列？



(甲)臺灣銀行券



(乙)鴉片專賣牌



(丙)國語家庭門牌



(丁)藍地黃虎旗

(A)甲乙丁丙 (B)乙甲丙丁 (C)丙丁乙甲 (D)丁乙甲丙。

23.小李在書上看到「臺灣原本種植在來米，但口感不佳，不合日本人的口味，後來臺灣總督府農業試驗所引進日本稻作，經過多次品種改良研究，終於在 1922 年成功培育出新品種，並且還在 1926 年的『大日本米穀會』第 19 屆大會當中發表問世。」請問關於文章所述，何者正確？ (A)主要研究人員是磯永吉技師 (B)當時臺灣人也能吃得到新品種米飯 (C)當時正處於「工業臺灣、農業南洋」的政策階段 (D)八田與一將研究成果推廣至嘉南平原。

24.臺灣大學林鐘雄教授曾在《臺灣經濟經驗一百年》一書中提到：「如果沒有日月潭水力，臺灣沒有現在。」請問這段話背後的意義何者<u>錯誤</u>？ (A)成就了「工業臺灣、農業南洋」時期的發展 (B)讓臺灣經濟邁向工業社會 (C)日月潭水庫讓臺灣農業產量提升 (D)日月潭發電所供應了臺灣西半部的用電。

25.住在高雄的醫師林大明因為國家政策的關係，跟著家人申請改名為「小林明太郎」，妹妹也改成了「小林惠子」。請問他們兄妹倆所處時代，下列何者<u>錯誤</u>？ (A)政府強調臺灣是內地的延長，日臺一視同仁 (B)很多人都以身為皇民為榮 (C)在南進政策的影響下，明太郎很可能會被派往南洋 (D)妹妹惠子前往神社參拜為哥哥祈福。

26.右圖是西元 1925 年臺北州警察衛生展覽會展出的海報「南無警察大菩薩」，可以看出當時警察的工作無所不包、權力很大，也被臺人稱為「大人」。請問下列說明何者正確？ (A)警察當中的青壯年另外成立「壯丁團」以鎮壓抗日 (B)當時每位臺灣警察管轄人數的比例低於日本、朝鮮 (C)警察需協助地方保甲完成人口普查 (D)當時漢人、原住民沒有擔任警察的機會。



27.小強對日治時期的歷史很有興趣，他找出很多臺灣總督就任時間的資料，請問下列哪一位總督的身分與工作背景與其他人<u>不同</u>？ (A)樺山資紀（1895~1896） (B)佐久間左馬太（1906~1915） (C)石塚英藏（1929~1931） (D)小林躋造（1936~1940）。

【題組一】

荷歌社頭目塔達歐•諾干與巴沙歐•莫那(莫那魯道次子)為了荷歌社是否加入抗日陣營而起了爭執，巴沙歐甚至用槍抵著塔達歐威脅說：「難道你不能體察出族人的痛楚？日本人對待族人如禽獸！你不該袒護日本人！」

塔達歐一開始極力勸阻荷歌社所有壯丁不要輕舉妄動：「我們遭到日本人的欺壓已有三十餘年，我們對抗日本人已有三代，荷歌社已經死去了許多族人，特別是社裡的壯丁勇士，我們苟延殘喘把你們養大，就是要保有族人命脈，今天我們要是沒有利用智慧去對抗日本人，我們將是死路一條，假若我們意氣用事去對抗日本人，勢必會遭到日本人的報復，我們因此又將會失去許多族人，我去過日本，曉得日本人的實力！」

不過，面對荷歌社義憤填膺急於投入抗日的族人，最後塔達歐還是表示：「如果大家決心要和日本人打仗，我是頭目，絕對帶著大家衝鋒陷陣！」

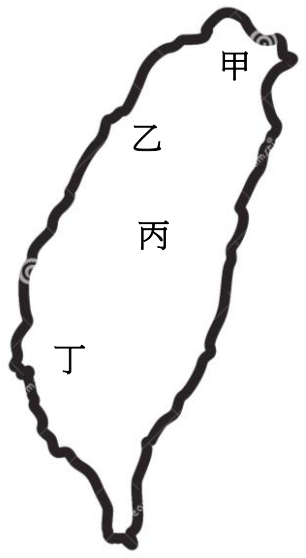

28.文中兩位部落領袖正在醞釀的是什麼事情？ (A)霧社事件　(B)牡丹社事件　(C)西來庵事件　(D)臺灣民主國。

29.承上題，事件發生在地圖的哪個位置？ (A)甲　(B)乙　(C)丙　(D)丁。

30.從塔達歐與巴沙歐的討論中可以得知原住民族的遭遇何者正確？ (A)日本剛佔領臺灣時對高山原住民即採取五年理蕃計畫　(B)荷歌社參與過因琉球島民而起的衝突事件　(C)荷歌社曾抗拒阿里山森林鐵路的興建　(D)總督府安排原住民頭目觀光日本的計畫包含了荷歌社。

【題組二】

1919 年 3 月 1 日，韓國獨立人士在京城府（今首爾）塔谷公園宣讀《獨立宣言書》，向世界宣布韓國的獨立，引發京城和其它多地民眾的大規模反日遊行示威。之後，三一運動的獨立浪潮席捲整個朝鮮半島，有 200 萬以上群眾參加了上千起反日示威和武裝起義。三一運動爆發後，日本增派了 6 個營的兵力和 400 名憲兵去朝鮮半島進行鎮壓，直到 1919 年底才被鎮壓下去。

31.請問文中的韓國「三一運動」爆發背景何者正確？ (A)中日因為朝鮮問題爆發戰爭　(B)第一次世界大戰結束引發新的政治浪潮　(C)日本在所屬殖民地大推「南進政策」　(D)日本入侵中國導致戰爭。

32.請問在韓國爆發「三一運動」期間，臺灣方面的狀態何者正確？ (A)一方面尊重臺人、一方面鎮壓武裝抗日　(B)以武官總督領導「日臺合一」政策　(C)大力推動說日語、改日姓、穿和服等日本化的政策　(D)知識分子以非武裝的政治社會運動爭取權益。

【題組三】

廖添丁（1883~1909）出身大肚上堡秀水庄（今臺中市清水區），是臺灣日治時期知名罪犯，也是臺灣民間傳奇人物他少時務農，後來往北臺灣謀生打零工，當時他也因多次行竊而頻繁進出監獄。1909 年他偷竊警槍彈藥及配劍，引起警方高度關注，友人將他藏匿在八里坌堡荖阡坑的山洞裡，該友人同時委託家人幫他送飯，然而該家人私下向警方通報廖的所在地，後來廖添丁在警方的圍捕中遭殺害。後來廖添丁的際遇經由民間講古說書人創作之後，成了具有抗日思想的「義賊廖添丁」，甚至還曾經幫余清芳護送西來庵事件用的火槍。

33.文章中提到廖添丁被舉報的情形，下列何者正確？ (A)民眾是依據〈六三法〉的規定舉報　(B)民眾會舉報他是因為害怕連坐法　(C)因為中日戰爭爆發必須抓出抗日分子　(D)因為廖添丁是破壞「日臺合一」政策的人。

34.廖添丁最後因重大竊案遭到警方追捕的時候，正處於日本治臺的什麼時間點？ (A)清廷割臺時期　(B)殖民地特殊統治時期　(C)內地延長主義時期　(D)皇民化運動時期。

【公民部分第 35~50 題】

35.下述江小鷺的一天記錄中，哪一項行為符合「第六倫」？
(A)遵守交通規則，走在行人穿越道上　(B)踏進校園後，禮貌地向師長們問早
(C)依照和同學的約定，放學去打籃球　(D)到圖書館借書，保持安靜、不喧嘩。

36.智慧型手機普及後，人們改變通訊方式，在臺灣，多數人都使用 LINE 聯絡。根據統計數據顯示，貼圖在台灣廣泛受到各年齡層用戶的喜愛。同樣是貼圖，銀髮族更形成特有的「長輩貼圖文化」，大部分的人都曾收到各式各樣的長輩貼圖，有些人覺得很困擾，因為發送次數過於頻繁，或是美感與年輕人有所不同；但也有些人覺得有趣，進一步製作出各種梗圖響應，搏君一笑。關於上述內容，下列描述何者有誤？
(A)文中長輩貼圖屬於次文化　(B)次文化指的是次等的文化
(C)主流文化與次文化之間仍有共通點，且得以並存　(D)次文化會使得一個社會文化內涵更加多元與豐富。

37. 除夕拜拜是農曆過年的重頭戲之一，祭拜的對象會因為地區習慣、或家中供奉的神明不同而有所差異，不過大部分主要祭拜對象為天公、地基主跟祖先。傳統習慣是需要祭拜五牲，即雞、豬、魚、牛、羊五牲，現代已經簡化成三牲，如果吃素的話素三牲也是可以的。上述內容呈現下列何種概念？
(A)透過宗教信仰感化人心、啟迪良知　(B)以道德力量約束人民的生活習慣
(C)傳統倫理道德的觀念不適用於今日　(D)社會規範會隨時間與空間而變動。

38.江小鷺為準備公民課有關文化的報告，以下是關於蘆洲區的介紹。

> 新北市蘆洲區位於淡水河下游西岸，附近的淡水河堤生態區是（甲）候鳥類在北部渡冬的重要棲地。蘆洲區每年舉辦的（乙）神將文化祭、每三年一次「國姓醮」祭典活動，都頗具特色。
> 若來到蘆洲，也不容錯過參觀（丙）國定古蹟蘆洲李宅，或是到湧蓮寺附近走走，若肚子餓了，推薦吃一碗（丁）切仔麵嚐嚐在地美食。

上述哪一項內容並非文化的範疇？(A)甲　(B)乙　(C)丙　(D)丁。

39. 2022 年臺灣燈會在高雄以光的盛會為發想，結合科技與地景藝術等元素。今年主燈採用最先進的投影設備，讓花燈從傳統的靜態展示，轉變為與環境互動的動態展演，打造前所未有的感官震撼。上述內容呈現文化的何種特性？
(A)普遍性 (B)差異性 (C)累積性 (D)制約性。

40.首次成為奧運比賽項目的滑板，是東京奧運備受矚目的賽事之一，儘管日本代表團獲得了多枚獎牌，一躍成為人們關注的焦點，但滑板運動還未普遍得到日本社會的接納和喜愛。請問：在日本，滑板運動屬於何種文化？
(A)弱勢文化　(B)主流文化　(C)強勢文化　(D)次文化。

41.為了因應新冠肺炎，我國政府制定相關防疫規定，例如公眾場合佩戴口罩或是與確診者接觸需居家檢疫等，除了明訂規範外，也祭出罰則，但仍有人觸法而受罰，彰顯下列何種概念的重要性？
(A)若法律處罰不夠嚴苛，不足以產生強制力　(B)社會規範會受時間、空間影響而產生改變
(C)為維護社會秩序，不能只靠單一社會規範　(D)人們會選擇性遵守對自己有利的社會規範。

42.原住民的歲時祭儀對於原住民族來說是很重要的節日與慶典，因此具有原住民身份的勞工在主管機關指定的歲時祭儀休假期間內，便可以依照勞動基準法規定放假一日且工資照給。依據上文，下列描述何者正確？
(A)透過法律協助宗教信仰　(B)透過法律維護風俗習慣　(C)宗教信仰改變法律內容　(D)倫理道德影響法律制定。

43.根據萬事達卡-新月評等 2021 年全球穆斯林旅遊指數，臺灣列為非伊斯蘭合作組織旅遊目的地的第 2 名。在臺灣，主要交通樞紐及景點如國際機場、車站、國家風景區等，都設有穆斯林祈禱室。考量穆斯林飲食與朝拜等生活習慣，規劃合適旅遊行程，營造對穆斯林朋友友善的旅遊環境。上述臺灣的作法，展現何種概念？
(A)鞏固強勢文化　(B)弭平文化差異　(C)強調次文化特色　(D)維護文化多樣性。

44.為了維護人性尊嚴，大多數民主國家將人權相關內容與規範制定於憲法中。請問透過此類的社會規範來保障人權，最主要的原因可能為下列何者？
(A)此為人類最早發展出來的社會規範，且較容易調整　(B)此類社會規範具有強制力，人民與政府都需要遵守
(C)因為此社會規範強調的是人際之間的相處應對之道　(D)此社會規範乃透過各種教義來約束人們的日常行為。

【題組一】

來臺灣念書、工作的外國人士日益增加，也有不少人選擇定居下來，甚至當起 YouTuber 分享臺灣與各國文化的差異。例如來自韓國的金針菇表示，在韓國只要差個 1 歲，就有長、幼之分，後者得說敬語，否則就是冒犯。

西班牙人黑素斯也分享他的觀察，臺灣人在飯桌上喜歡替別人夾菜，對臺灣人來說這是一個貼心的表現，但看在外國人眼裡卻是個不禮貌行為，因為碗盤是個人空間，這樣做很不尊重別人。

45.金針菇分享的文化差異例子，屬於哪一項類別的社會規範？

(A)風俗習慣　(B)宗教信仰　(C)倫理道德　(D)法律。

46.上文內容，彰顯下列何種概念？

(A)面對文化差異時，應相互理解，才能彼此尊重與包容

(B)為避免文化衝突再發生，應降低不同文化接觸的機會

(C)不同文化接觸後，會使得文化開始有高低優劣的區分

(D)為保存本土文化得以傳承，應要降低文化交流的機會。

【題組二】

臺灣社會獨尊英語的氛圍，是「後殖民情境」的展現，後殖民的意思是國家雖在政治上未被殖民，但不論在文化、經濟、外交等面向，卻受某些國際霸權影響。在臺灣，即使中學有閩南語、客語、原住民語等基本語言課程，高中依各校特色發展如法語、西班牙語、日語、越語等第二外語以供選修，但其比重與英語相較，都微乎其微。

英語教學者 Patricia Ryan 在 TED 的「別堅持說英語」演說中，說明英語帶給某些族群大幅的優勢，卻是也限縮了很多語言的延續。

47.依據文章內容判斷，臺灣習得外語的氛圍，可能是下列哪一種原因所造成？

(A)文化差異　(B)文化位階　(C)文化變遷　(D)文化衝突。

48.文章最後一段提醒我們下列哪一觀念的重要性？

(A)文化之間應秉持著尊重與包容，並避免衝突　(B)文化交流時，不應以自身觀點貶低其他文化

(C)強勢文化的擴張，可能使弱勢文化逐漸式微　(D)維持文化多樣性，可以使該文化提升創造力。

【題組三】

猴祭是卑南族少年進入成年前的陶冶訓練，也是卑南族男子社會化的重要機制。猴祭主要是藉著刺猴活動與儀式，來培養少年的膽識和英勇的抵禦敵人的氣概。由於尊重動物權的觀念盛行，現今已改由草猴代替真的猴子，猴祭的意義演變成讓現代的青少年認識族群歷史與文化的一個媒介。

49.根據上文說明，早期的猴祭對卑南族人來說，有何意義？

(A)指引個人行為，使其融入社會　(B)透過成年禮啟迪個人內在良知

(C)約束個人行為以維護社會秩序　(D)以教義、戒律等鼓勵個人向善。

50.上述畫底線＿＿＿＿的部分，符合下列何者說明？

(A)社會規範可展現出該族群生活的特性　(B)社會規範主要功能是避免與化解衝突

(C)社會規範一成不變，不易隨時空改變　(D)社會規範是人們認可並且遵守的準則。

試題結束，記得檢查、畫卡