新北市立鷺江國民中學　110學年度　第2學期　7年級　社會科　第3次段考　題目卷

命題教師：社會領域教師　　日期：6月29日　第3節　　班級：　　座號：　　姓名：

共50題，每題2分，總分100分。

【地理部分 第1-17題】

【題組1-3】

2020年因為武漢肺炎（2019冠狀病毒疾病，COVID-19）疫情，民眾難以出國旅遊，有業者洽談航空公司，準備國慶連假推出包機往返台北高雄的旅遊產品，已停飛8年的北高航線有機會短暫復活。

事實上，北高航線曾是台灣國內黃金航線，後來因為載客率下降，故華信航空於2012年8月31日執行最後一班北高航班，當年9月1日起北高航班全面停飛。

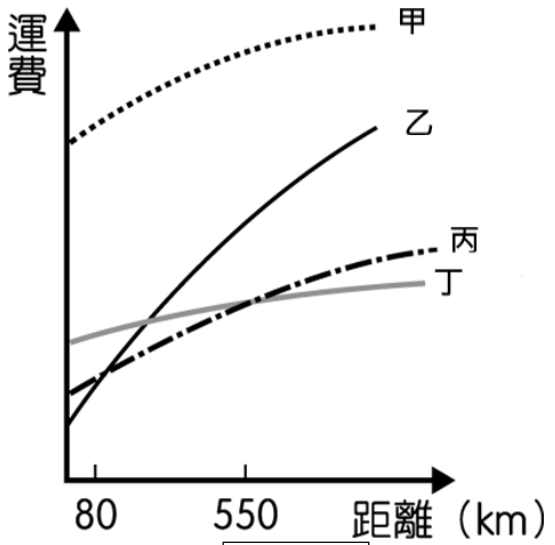

圖(一)

1. 圖(一)為空運、水運、公路、鐵路運輸距離運費對照表，根據上述文章所提到的台北—高雄航線應該是圖(一)中的哪個運輸方式？
(A)甲　(B)乙　(C)丙　(D)丁。

2. 上述文章提到北高航線停飛，最主要是因為高鐵於2007年開始營運之後，因為兩者有著相似的運輸特性，故國內航空運輸受到了極大的衝擊，導致載客量下降，最終停飛。請問：在下列的運輸特性中，何者是高鐵與飛機的共同運輸特性？
(A)載客量較小　(B)機動性較強　(C)運輸速度快　(D)修築成本低。

3. 承上題，高鐵最適合在下列哪種地形中行駛？
(A) 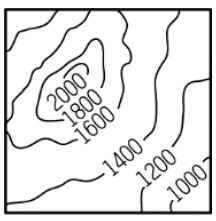

(B) 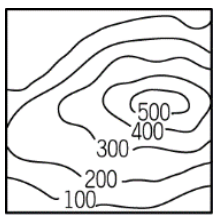

(C) 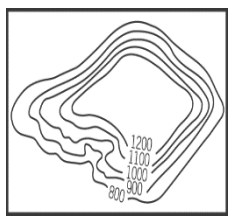

(D) 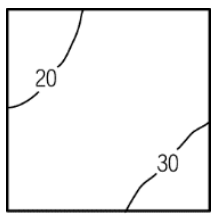

4. 這百年來，台灣的鄉村與都市的居住人口比例有很大的變化，如圖(二)所示。請問：為什麼台灣都市的居住人口比例逐漸上升？
(A)全國的人數不斷增加　(B)貧富的差距日趨嚴重
(C)三級產業就業結構改變　(D)第一級產業升級、革新

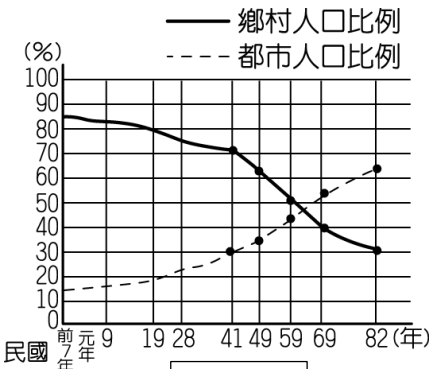

圖(二)

5. 基於環境保育及國土保安的前提下，政府依各地特色和需要，提出「國土空間結構與定位」的發展策略。請問：在此策略中，澎湖南方四島國家公園主要屬於何種發展軸線的項目？
(A)中央山脈保育軸　(B)海洋環帶
(C)東部優質生活產業軸　(D)離島生態光觀區

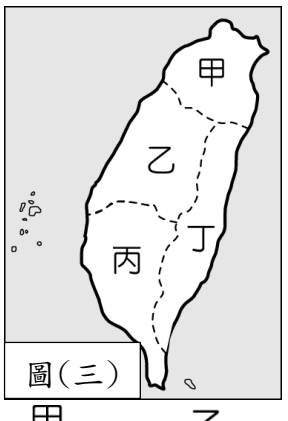

圖(三)

縣市	病例數	縣市	病例數	縣市	病例數
新北市	725469	屏東縣	76997	雲林縣	42098
桃園市	358240	新竹縣	74246	南投縣	36296
台北市	313843	基隆市	69238	嘉義縣	30437
高雄市	298290	宜蘭縣	58441	台東縣	22670
台中市	293143	新竹市	53049	嘉義市	19388
台南市	172869	苗栗縣	50802	金門縣	3621
彰化縣	112354	花蓮縣	45571	連江縣	908

6. 從2019年底新冠肺炎便開始蔓延，中央政府成立疫情指揮中心，全面防堵疫情的擴散。附表為2022.1.1-2022.6.12的新冠肺炎病例的分布統計圖，根據表中資訊判斷，要特別加強防疫工作的區域位於圖(三)中哪一區域？(A)甲　(B)乙　(C)丙　(D)丁。

7. 圖(四)為某聚落發展的示意圖，當聚落發展到圖中乙階段時，為促進郊區發展，縮短通勤時間，政府會興建哪一建設？
(A)內河運輸　(B)捷運系統
(C)高速鐵路　(D)國際機場。

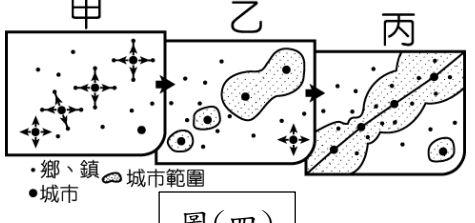

圖(四)

8. 國家公園是指具有國家代表性之自然區域或人文史蹟，內政部自1982年以來共設置了9座國家公園，保護了臺灣許多珍貴資源。請問：若以圖(五)中臺灣的國家公園分布圖判斷，哪一個區域的國家公園數量最多？
(A)東部區域　(B)北部區域　(C)中部區域　(D)南部區域。

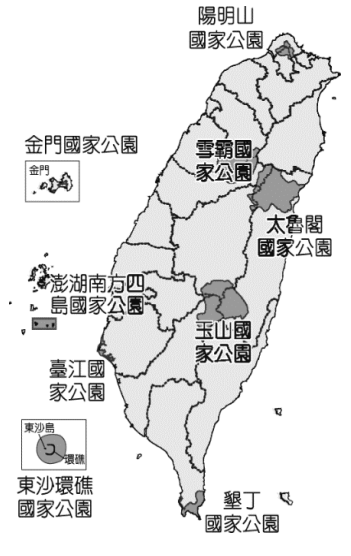

圖(五)

9. 前些陣子彰化縣打算申請升格為第七個直轄市，不過因為人口減少、發展衰退、整體發展不明等原因，故無法順利升格。彰化縣申請升格也是有其原因，因為彰化與台中一同構成台中彰化大都會區，如圖(六)全台都會區分布圖所示。請根據圖中地理位置判斷，下列敘述何者正確？
(A)五大都會區皆屬於副熱帶氣候　(B)五大都會區皆為平原或盆地
(C)五大都會區皆有高速公路通過　(D)五大都會區內皆有捷運系統。

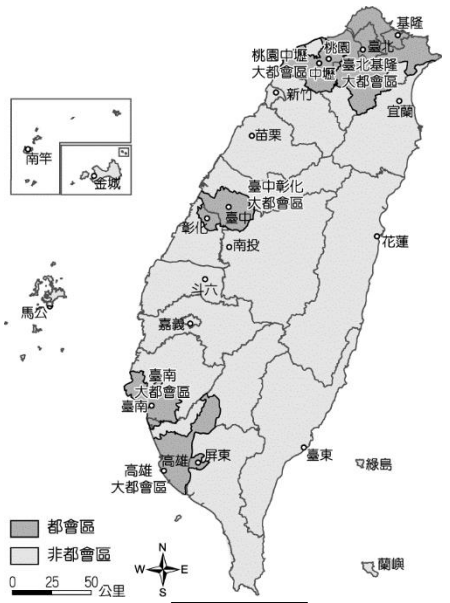

圖(六)

10. 世界中學生地理線上交流群正在發起活動，來自世界各地的中學生正在討論各自所看到的地理現象，剛好他們正討論到鄉村與都市的概念，請問：哪一個人所發表的說法正確？
(A)Cecilia：都市內部出現的車輛擁擠，常造成嚴重的空氣汙染
(B)Mary：對呀！像我們都市大部分的人從事農業活動，農藥的使用造成水源及土地汙染
(C)Nino：都市由於生活空間極大，吸引許多人遷居至都市
(D)Frank：都市所提供的生活機能遠不如鄉村。

11. 附表為內政部 2021 的全臺人口密度最高的聚落統計資料，根據附表判斷，這和當地具備何項條件的關係最為密切？
(A)地勢崎嶇　(B)水源豐沛　(C)面積廣大　(D)工商發達。

排序	區	城市	人口密度（人／km^2）
1	永和區	新北市	37,622
2	蘆洲區	新北市	27,100
3	大安區	台北市	25,649
4	新興區	高雄市	24,986

12. 圖(七)為鷺江市的土地使用分區圖。若這個城市的金融中心位於道路交通的樞紐地帶，圖中的哪一圖例最可能代表本市的金融中心？
(A)甲　(B)乙　(C)丙　(D)丁。

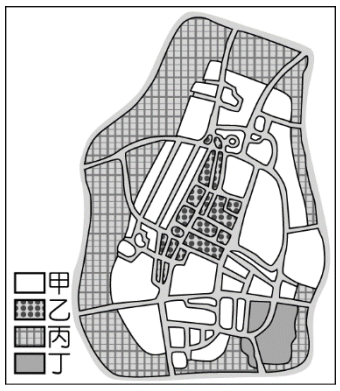

圖(七)

13. 新市鎮主要為紓解都市過多的人口壓力，圖(八)為臺灣人口密度分布圖。請問：若依圖中資料判斷，下列哪一個地區設立新市鎮的需求性最高？
(A)臺中市　(B)臺北市　(C)高雄市　(D)雲林縣。

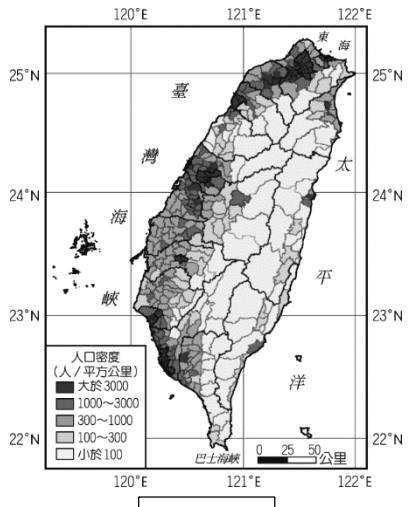

圖(八)

14. 聚落的發展受到交通位置的影響相當大，圖(九)為臺鐵某路段的班次表，請試由表中資料判斷，下列哪一個都市的產業較為發達，都市規模較大？
(A)甲　(B)乙　(C)丙　(D)丁。

時刻表 / 北上

車次	行駛日	甲	乙	丙	丁
101	一	—	06:50	06:54	07:12
107	一～五	06:33	—	07:12	07:42
114	一～五	06:40	07:00	07:22	—
127	一～五	—	—	07:30	—
155	一～五	07:15	—	07:35	07:54
162	一～五	07:32	07:52	08:05	08:42
177	一～五	07:50	—	08:12	—

圖(九)

15. 臺灣近年來為減少機動車輛排放汙染，大力推廣電動機車以取代燃油機車。目前臺灣電動機車的主要充電方式以設置交換站為主，相關的電池交換站主要依其人口密度來估算使用者數量，決定設置的密度高低。請問：王大頭若騎乘該電動機車進行環島，前往下列何者最容易找到交換站補充電力？
(A)台東　(B)台北　(C)臺南　(D)屏東。

16. 行政院正積極推行區域發展相關計畫，希望降低各區域間的發展差異。目前海洋環帶地區若欲進行相關發展計畫，在產業發展方面以下列哪一項策略較為可行？
(A)輔導生態觀光與環境保育研究　(B)引進石化原料進行能源加工
(C)在海岸地區規畫高科技工業園區　(D)興建大型遊樂區以吸引遊客。

17. 聚落的結構分布通常呈現階層狀的體系，附表為某直轄市的各級行政結構數量。請問：若依表中資料判斷，則其行政單位依其階層高低排列，應該為下列何者？
(A)甲乙丙　(B)乙丙甲　(C)丙甲乙　(D)乙甲丙。

行政單位	甲	乙	丙
數量	649	37	9655

【歷史部分 第18-34題】

【題組18-19】

1973年10月第四次中東戰爭爆發，石油輸出國組織為打擊以色列及其支持國，暫禁石油出口。當年12月宣布收回原油標價權，提高油價；次年1月再次宣告漲價。在這兩年間，原油每桶從2.8美元提高到10.7美元，世界經濟遭受嚴重衝擊，產生停滯性通貨膨脹現象。

18.請問此時政府採取哪一手段以穩定經濟發展？ (A)五年經濟計畫 (B)南向政策 (C)十大建設 (D)土地改革。

19.請問時任行政院院長為下列何者？ (A)辜振甫 (B)蔣中正 (C)汪道涵 (D)蔣經國。

【題組20-21】

資料甲：「臺灣政府全面管制自行車零件進口，甚至全面禁止自行車成品進口，因而造就大東（飛虎牌）、臺灣自行車（自由牌）、臺灣機械、伍順等本土車廠崛起。」

資料乙：「政府設立新竹科學工業園區，積極鼓勵國內外企業設廠投資電腦與積體電路等產業。」

資料丙：「國內面臨資金短缺問題，政府為改善投資環境，吸引僑外投資，以拓展輸出，增加外匯收入，特別克服了制度上的困難，終於在1966年創設高雄加工出口區。」

資料丁：「中山高速公路投資金額甚鉅，所以當時反對聲浪不小，有人批評中山高速公路專為有錢人而建，因為有錢人才有汽車開上高速公路。」

20.請根據上述資料內容，依時代順序排列？ (A)乙甲丙丁 (B)甲丙乙丁 (C)甲丙丁乙 (D)乙丁甲丙。

21.請選出與「資料丁」同屬於相同政策下的公共建設。甲.基隆港、乙.蘇澳港、丙.臺中港、丁.中國造船廠 (A)乙丙 (B)甲乙 (C)乙丙丁 (D)甲丙丁。

22.日治時期，臺灣文學一度展現出古典漢文、白話文、日文等多重風貌，但戰後初期臺灣本土作家卻迅速消沉，請問其原因為何？ (A)臺灣本土作家懷念日本統治，堅持日語創作 (B)西方文學引進臺灣，本土作家積極將作品洋化 (C)戰後臺灣人熱愛中華文化，將本土語言視作落後 (D)政府推行國語政策，使本土作家的活動空間逐漸萎縮。

23.民國39年韓戰爆發，美國總統立刻發表「臺海中立化」的聲明，派遣第七艦隊協防臺灣，並於民國43年簽屬何項條約，將臺灣納入東亞反共體系？ (A)臺灣關係法 (B)中美共同防禦條約 (C)一國兩制 (D)聯合國憲章。

24.志鴻看到一篇報導中記載，1958年8月23日，中國人民解放軍福州軍區副參謀長石一宸下達命令，砲兵猛烈發動炮擊，兩小時內落彈達四萬餘發，當日落彈數更達五萬七千餘發，重點集中指揮所、觀測所、交通中心、要點工事及砲兵陣地，由於當時正值晚餐時間，突發砲火造成國軍死傷440餘人。「旁邊都是屍體，牆壁上都是碎肉……」今年高齡82歲的林熇白，回想起當天的慘狀仍歷歷在目。請問此炮擊攻擊的地點是哪裡？ (A)臺灣 (B)馬祖 (C)澎湖 (D)金門。

25.龍龍回憶年輕的時候，當時臺灣年輕知識分子及大專青年，興起一股自己作詞作曲，並使用吉他自彈自唱發表創作的風氣。這些歌曲的演唱者年紀輕，曲風清新樸實，多以校園及平日所接觸的人事物為創作內容，如〈捉泥鰍〉、〈橄欖樹〉等均為當時傳誦甚廣的歌曲。請問這是哪一年代的普遍現象？ (A)1960年代 (B)1970年代 (C)1980年代 (D)1990年代。

26.1986年美國杜邦公司決定投資一億六千萬美元在彰濱工業區生產二氧化鈦，鹿港民眾上街頭示威抗爭，迫使杜邦放棄設廠。同一年，六輕計劃設廠宜蘭，遭當地人反抗，最後轉落腳雲林。請問這些社會運動，在性質上可歸類為下列何者？ (A)環保意識的抬頭 (B)政治威權的對抗 (C)特定族群的權益 (D)弱勢族群的覺醒。

27.原住民正名運動後，許多原住民紛紛改回自己的傳統族名。例如：藝人張惠妹為卑南族，族名Kulilay Amit。2009年，她更以《Amit》為名推出專輯。現任中華民國總統府發言人Kolas Yotaka，原名葉冠伶。在約2005年、2006年間戶籍登記名由漢名改為原住民名。請問「原住民正名運動」在何時獲得政府重視，並進行修憲？ (A)1949年 (B)1970年 (C)1987年 (D)1994年。

28. 民國85年，美君的外公到中國探親，不慎在當地受傷住院。在中國的親屬想連繫在臺灣的美君，希望可以早日到中國來協助外公。請問兩岸家人要透過何種管道進行聯繫？　(A)陸委會——海協會　(B)海基會——海協會　(C)海基會——國臺辦　(D)陸委會——國臺辦。

29. 民國60年代，文壇開始出現許多關懷在地人民生活為題材，關注農民、勞工的遭遇。例如：《兒子的大玩偶》、《金水嬸》等作品，它們彰顯出何種內涵？
(A)對中華文化的眷戀情懷　(B)歌頌美援對臺灣的幫助　(C)強調鄉土情感，重視寫實　(D)對國家的熱愛，凝聚人民向心力。

30. 靜靜正在看兩岸關係的研究論文，不少學者指出兩岸關係從對立走向和緩，其實與臺灣政治民主化發展有密切的關連。請問關於兩岸關係下列何項歷史事實敘述正確？
(A)1991年臺灣透過修憲程序終止動員戡亂，承認兩岸分裂分治的現實
(B)1979年臺灣用「反攻大陸」來取代原有的「三民主義統一中國」
(C)1991年政府正式宣布實施「大三通」
(D)1993年海基會、海協會於香港首次會談，創兩岸交流的先河。

31. 臺灣在1950年代，因為美國大量進口麵粉，政府官員尹仲容發現，國際小麥價格只有稻米的一半。如果我們能多進口小麥，鼓勵大家多吃麵食，節省下來的稻米就能出口多賺取些外匯。故提出了「多吃麵粉、少吃白米」的口號。請問：美國大量進口麵粉到臺灣來，提供中華民國經濟援助，與下列哪一場戰爭的爆發有關？
(A)古寧頭戰役　(B)韓戰　(C)八二三炮戰　(D)國共內戰。

32. 傑元參加蘆洲農會舉辦的土地改革展覽，在聽完導覽解說後對三句話印象深刻：
(甲)「政府要強制買走我們的土地，說是要讓更多農夫有自己的土地可以耕種」
(乙)「政府規定我們以後繳的地租不得超過年收穫量的375‰」
(丙)「聽說政府要把公家土地開放給農夫登記購買」。
請問：依照土地改革的先後順序該如何排列？
(A)乙甲丙　(B)甲丙乙　(C)甲乙丙　(D)乙丙甲。

33. 蓉蓉正在翻閱一份檔案報紙，內容如右圖。請問事件過後，我國為了突破在國際上的困境，採取什麼樣的外交策略？
(A)改採「彈性外交」，堅持中華民國為中國唯一合法政權
(B)提出「三不政策」，並強調「三民主義統一中國」
(C)改採「務實外交」，積極參與國際組織
(D)改採「鞏固外交」，爭取友邦認同，謀求「確保臺灣，光復大陸」。



34. 1991年政府正式開放引進國際移工。根據勞動部勞動力發展署統計，截至2019年底所引進的國家與移工人數統計如下表。請問下列何者為臺灣引進國際移工的原因？
甲.生產成本提高、乙.勞動力不足、丙.環保意識抬頭、丁.經濟型態由農轉商
(A)甲乙 (B)甲乙丙 (C)乙丙丁 (D)甲乙丙丁。

引進國家	產業移工	社福移工
越南	19.6萬人（43%）	2.8萬人（11%）
菲律賓	12.7萬人（28%）	3.1萬人（12%）
印尼	7.5萬人（16%）	19.7萬人（77%）
泰國	6萬人（13%）	

【公民部分 第 35-50 題】

35. 因應屏東火車站新站完工，縣府依計畫啟動周邊道路拓寬案，上周二首次進行屏東市光復路、柳州街等路段的地上物拆除工程招標時，反遷民眾認為政府是強徵民地供財團商業利益，在屏鐵反迫遷自救會等民團聲援下，到縣府抗議要求停止標案，不得以整體利益為由，而侵犯了個人的權利。上述自救會及民團的作為是屬於追求公平正義的哪個理念？

(A)基本自由與權利　(B)享有公平的機會　(C)針對不同身分提供特別服務　(D)公開透明的作業流程。

36. 幾位同學正在討論「社會救助」的概念，下列何人所舉的例子最符合？

(A)



(B)



(C)



(D)



37. 國中教育會考今天結束，教育部長表示，截至目前統計，共有 3413 名考生因確診 COVID-19 或快篩陽性等因素，須改參加補考，將會是疫情以來補考人數最多的一年，呼籲心測中心和全國試務會繼續努力，維護學生的權益。請問：上述教育部的決策是為了達成哪一方面的公平正義？

(A)使每個人都享有基本自由與權利　(B)確保每個人都有公平的機會　(C)對弱勢群體提供較多的照顧

(D)對不同方面的弱勢群體提供一樣的照顧。

38. 國內本土疫情嚴峻，就業市場更是艱辛，卻常見徵才性別歧視問題，有民眾陳情在市場、夜市等商店、商家出現如「清潔阿姨」、「女性銷售員」、「男保全」等涉及性別歧視的徵才廣告，北市勞動局指出若以性別作為徵才條件，恐違法性別工作平等法，可處 30 至 150 萬罰鍰。請問：店家遭到開罰的主要原因為何？

(A)給移工不公平待遇　(B)阻礙社會流動　(C)對於求職者性別歧視　(D)排擠弱勢族群。

39. 台南市府社會局結合農田水利會員工消費合作社、文教公益基金會等，辦理愛心餐食補給站計畫，在今年暑假期間，預計將發放四萬二千張餐券，預計有一千名弱勢家庭學童受惠，學童可憑券至南市統一超商、全家、萊爾富及ＯＫ便利商店等四大超商門市兌換各類餐食。請問：上述屬於政府的何項社會福利政策？

(A)社會保險　(B)社會津貼　(C)就業安全　(D)福利服務。

40. 新北市長侯友宜今宣布明起成立「到宅照護隊」，由醫檢師、醫師到宅為 65 歲以上獨居長者且行動不便或身障者，提供快篩、問診、投藥、服務等四合一一條龍式照護，以爭取診治時效，保護長輩和身心障礙者的健康。請問：上述為哪一項社會福利政策的內容？ (A)社會保險　(B)社會救助

(C)居住正義與社區營造　(D)健康與醫療照護。

41. 鷺江股份有限公司在技術、維修等專業技能及體力負荷較大之部門皆以男性為主，女性大多參與人事、行政部門工作。請問：該公司反映出哪一項社會不公平現象？

(A)利益分配　(B)責任負擔　(C)貢獻程度　(D)需求滿足。

42. 根據國家發展委員會「人口推估統計」報告書表(一）指出，目前生育率持續下降，出生數仍將持續減少，造成少子化與高齡化趨勢延續。因此政府應加強下列哪一項措施來因應？

(A)成立庇護中心或中途之家　(B)發放就業促進津貼

(C)提供居家照顧、設立老人安養機構　(D)提供低收入戶生活補助

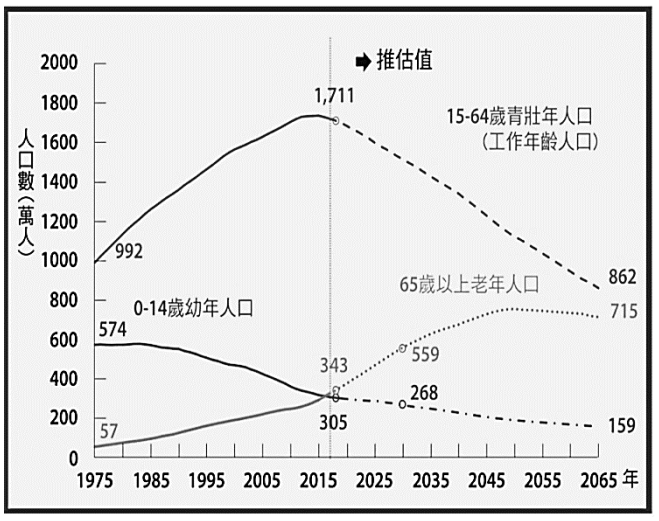

表(一）

【題組 43-44】:

根據主計總處資料顯示，2021 年全年低所得家庭的物價指數（CPI）年增率 2.01%，創下近九年新高，所謂低所得家庭為可支配所得最低 20%的家庭；中所得家庭則是可支配所得中間 60%的家庭；高所得家庭則為可支配所得最高 20%的家庭。顯示在當前物價環境下，低收入家庭面臨更大的物價壓力。對於物價上漲的憂慮，年長者又比年輕人更甚。物價上漲已經無庸置疑，加上國內家庭經濟所得持續嚴重兩極化，政府一定要特別注意物價上漲造成的影響。　2022-1-08 經濟日報報導

43. 根據上文所述，請問：上述內容與下列哪一項社會不公平現象相關？
(A)利益分配 (B)責任負擔 (C)貢獻程度 (D)需求滿足。

44. 政府針對上述社會不公平的現象，因此需提出因應政策主要是為了下列何者？
(A)消弭性別歧視 (B)縮小貧富差距 (C)相信人性本善 (D)達成均富社會。

【題組 45-46】新聞報導：

馬斯克在 10 歲那年買了第一部電腦，並自學了編程。17 歲時，他高中畢業後為了避免南非的強制兵役，前往加拿大，花了一年的時間到處打零工。有次更到當地的失業救濟所求助，接著便開始在鋸木廠裡擔任清洗鍋爐房的臨時工，而且在此後的求學過程中未受到父母的經濟資助。他在 31 歲時創立 Zip2，表示自己「每周工作 120 個小時」，有時需要服用安眠藥來對抗失眠。之後他賣掉了這家公司並在 33 歲的時候，入股了 Tesla，並擔任其 CEO 兼首席設計師。不過，Tesla 在 2013 年曾瀕臨倒閉。至今馬斯克今年還未到 50 歲，但已經成為全球首富，可說是一個現實中的神話。

摘錄天下文化《鋼鐵人馬斯克》

45. 馬克思的努力奮鬥過程受到許多人的敬仰。上述的現象我們稱為？
(A)公平正義 (B)社會化 (C)社會流動 (D)社會變遷。

46. 馬斯克今年還未到 50 歲，但已經成為全球首富，可說是一個現實中的神話。馬克思所獲得的社會地位的途徑為何？ (A)是屬於後天努力取得 (B)是屬於與生俱來的 (C)是靠繼承取得的 (D)是因為政府的協助。

【題組 47-48】新聞報導：

為保障女性外籍移工在台工作權益，勞動部明文禁止雇主不得以懷孕為由任意解除聘僱契約，並設立解約驗證機制。但監察委員調查發現，勞動部空有法令與措施，卻落實不足，發現有不少女性外籍移工常常處於孤立無援的狀態，懷孕後被刁難、要求解約回國，甚至有移工媽媽擔心雇主知道後會遣返她，只好隱忍自己懷孕的事情，也未做產檢而生下孩子。為避免婦女因懷孕或產假而遭到解僱，更嚴重影響其工作權益。我國也在 2015 年全面取消對女性移工的妊娠檢查，相關法令並明文禁止雇主以女性移工懷孕為由，單方面終止聘僱契約，勞動部也有解約驗證機制。

★監察委員職責:對政府機關有監察及糾正權　　2022-05-03 The News Lens 關鍵評論報導

47. 請問：女性移工因懷孕後被刁難、要求解約回國影響工作權益。是屬於下列哪一項社會不公平現象相關？
(A)利益分配 (B)責任負擔 (C)貢獻程度 (D)需求滿足。

48. 根據新聞內容所述，下列何者較符合勞動部修法所要推展的理念？
(A)實現人性尊嚴 (B)化解勞資對立 (C)強調機構留養 (D)提供免費救濟。

【題組 49-50】新聞報導：

全球通膨巨獸來襲，近來物價及租金雙漲，壓得租屋族喘不過氣，政府爲有效減輕租屋民眾生活負擔。行政院今(2022)年 5 月核定擴大租金補貼專案為 4 年計畫，將租金補貼戶數從目前 12 萬戶大規模提升至 50 萬戶，並對初入社會的單身青年、新婚夫妻、育兒與社會經濟弱勢家戶的補貼金額，加碼給予 1.2 倍至 1.8 倍，總經費從目前每年 57 億元擴增至 300 億元。　　2022-03-11 內政部新聞發布

49. 請問：上述為哪一項社會福利政策的內容？
(A)社會保險 (B)社會救助 (C)居住正義與社區營造 (D)健康與醫療照護。

50. 請問：根據上文政府爲有效減輕民眾生活負擔的補貼政策，是為了達成哪一方面的公平正義？
(A)基本自由與權利 (B)對弱勢群體的特別照顧 (C)租屋機會的平等 (D)租屋作業流程的公開透明。

本試題卷結束